2022년도 제 1 회 중학교 졸업학력 검정고시

중졸

제 ⑥ 교시 기술 · 가정

1. 자아 존중감이 높은 사람의 특징으로 가장 적절한 것은?

① 미래에 대해 비관적이다.
② 일에 대한 자신감이 부족하다.
③ 자신을 가치 있는 존재로 여긴다.
④ 변화에 적응하기 어렵고 의존적이다.

2. 다음 대화에서 (가)에 들어갈 내용은?

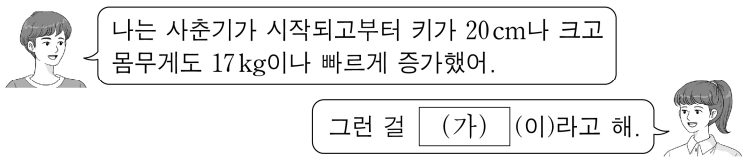

① 성장 급등 ② 성적 성숙
③ 가설적 사고 ④ 개인적 우화

3. 다음 설명에 해당하는 것은?

> 성숙한 난자가 양쪽 난소에서 한 달에 한 개씩 번갈아 배출된다.

① 몽정 ② 배란 ③ 임신 ④ 피임

4. '나' 전달법을 사용한 것은?

①

②

③

④

5. 다음 설명에 공통으로 해당하는 영양소는?

> ○ 우리 체중의 약 $\frac{2}{3}$를 차지한다.
> ○ 노폐물 배설과 체온 유지를 돕는다.
> ○ 식품 구성 자전거의 앞바퀴 부분이다.

① 물 ② 지방 ③ 무기질 ④ 탄수화물

6. 다음 설명에 해당하는 품질 인증 마크는?

> 식품의 원재료 생산부터 최종 소비까지의 모든 단계에서 위해 요소를 중점 관리하여 안전한 식품에 부여한다.

① 유기농 (ORGANIC) 농림축산식품부
② 전통식품 (TRADITIONAL FOOD) 농림축산식품부
③ CO2 탄소발자국 000g 환경부
④ 식품안전관리인증 HACCP 식품의약품안전처

7. 다음 (가)에 해당하는 것은?

> ◆ 의복 소재 : (가) ◆
> • 동물의 털을 원료로 한다.
> • 가볍고 보온성이 좋아 코트, 스웨터 등에 사용된다.

① 견 ② 면 ③ 모 ④ 나일론

8. 다음 설명에 해당하는 주거의 조건은?

> 온도, 습도, 채광, 통풍이 조절되고, 소음과 진동이 없어야 한다.

① 경제성 ② 능률성 ③ 심미성 ④ 쾌적성

9. 다음 설명에 해당하는 주거 공간은?

> 공부, 취침, 휴식 등 개인의 독립적인 생활을 위한 공간

① 가사 작업 공간 ② 개인 생활 공간
③ 공동 생활 공간 ④ 생리 위생 공간

10. 가정 내 안전사고 예방 방안으로 적절하지 <u>않은</u> 것은?

① 계단에 난간을 제거하였다.
② 현관문에 도어체크를 설치하였다.
③ 욕실에 미끄럼 방지 처리를 하였다.
④ 가구 모서리에 안전장치를 설치하였다.

11. 다음 체크 리스트의 응답 결과에 해당하는 소비 성향은?

다음 항목 중 자신에게 해당하는 것에 체크 표시(✓)를 하시오.
☐ 유명 상표 제품이 아니면 사기 싫다.
☑ 구입할 물건의 목록을 작성하는 편이다.
☐ 세일하는 물건은 미리 구입하는 편이다.
☑ 나는 필요 없는 물건은 거의 사지 않는 편이다.
☐ 예쁘거나 멋진 친구가 입은 옷은 따라 사는 편이다.
☑ 물건 구입 시 꼼꼼하게 따져 보고 결정한다.

① 과소비 ② 과시 소비 ③ 충동 소비 ④ 합리적 소비

12. 다음 설명에 해당하는 소비자 권리는?

> ○ 식재료에 원산지가 표기되어 있다.
> ○ 가공 식품에 들어간 성분이 표시되어 있다.
> ○ 전자 제품의 가격 및 사용법이 설명되어 있다.

① 교육을 받을 권리
② 정보를 제공받을 권리
③ 피해 보상을 받을 권리
④ 쾌적한 환경에서 소비할 권리

13. 다음 설명에 해당하는 기술의 영역은?

> ○ 재료를 가공하여 제품을 만드는 기술
> ○ 생활에 필요한 각종 물건을 만드는 기술

① 건설 기술 ② 수송 기술 ③ 제조 기술 ④ 통신 기술

14. 다음 설명에 해당하는 확산적 사고 기법은?

> 특정한 주제에 대하여 뇌에서 폭풍이 휘몰아치듯 생각나는 아이디어를 짧은 시간에 많이 제시하는 기법

① ALU ② PMI
③ 평가 행렬법 ④ 브레인스토밍

15. 다음 설명에 해당하는 지식 재산권은?

> ○ 인간의 사상이나 감정을 표현한 창작물에 주어지는 권리
> ○ 문학, 영상, 음악 등의 창작물에 대해 창작자에게 주어지는 권리

① 상표권 ② 저작권 ③ 특허권 ④ 실용신안권

16. 안전사고를 예방하는 방법으로 적절하지 <u>않은</u> 것은?

① 화재 시에는 엘리베이터를 이용한다.
② 작업할 때 필요한 보호구를 착용한다.
③ 피복이 벗겨진 전선은 사용하지 않는다.
④ 차량이 출발하기 전에 안전띠를 착용한다.

17. 다음과 같이 제3각법으로 표현한 물체의 실제 모양은?

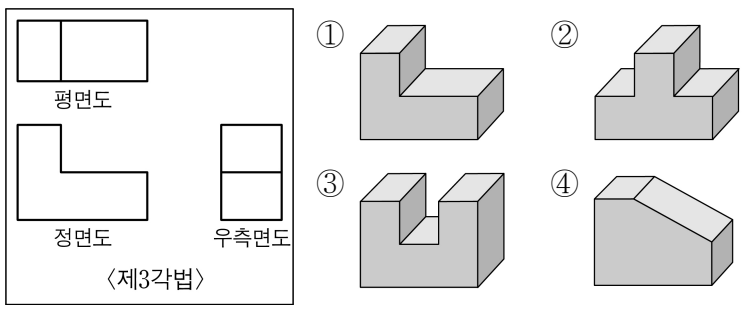

18. 다음 픽토그램이 나타내는 것은?

① 경고
② 금연
③ 비상구
④ 의무실

19. 다음 설명에 해당하는 기기는?

> 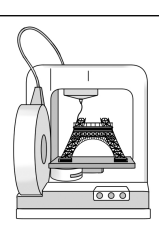
> 3차원 도면 데이터를 이용해 입체적인 물건을 만드는 기기

① 드론 ② 방적기 ③ 제분기 ④ 3D 프린터

20. 제조 기술 시스템 중 (가)에 해당하는 내용은?

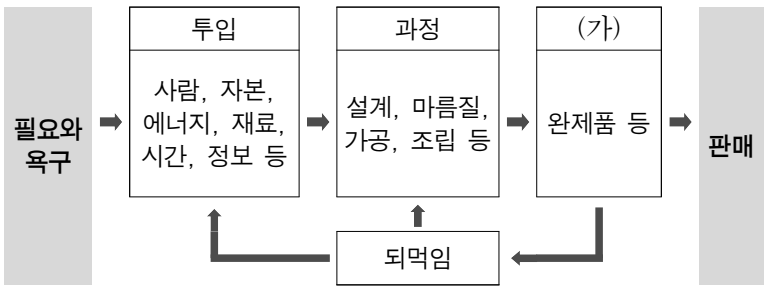

① 배치 ② 보완 ③ 산출 ④ 자원

21. 다음 설명에 해당하는 건설 기술의 특성은?

> ○ 지역의 자연환경이나 사회적 조건을 고려하여 적합하게 건설한다.
> ○ 대표적인 예로 게르, 수상가옥, 이글루 등이 있다.

① 공공성 ② 일회성 ③ 장기성 ④ 지역성

22. 전동기로 움직이는 자동차는?

① 디젤 자동차 ② 전기 자동차
③ 증기 자동차 ④ 가솔린 자동차

23. 에너지가 가장 많이 절약되는 에너지 소비 효율 등급은?

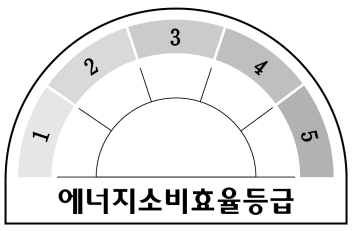

① 1등급
② 2등급
③ 4등급
④ 5등급

24. 다음 설명에 해당하지 <u>않는</u> 것은?

> 사용자가 신체의 일부처럼 착용하여 사용할 수 있는 기기

① 스마트 공장 ② 스마트 신발
③ 스마트 워치 ④ 스마트 의류

25. 다음 설명에 해당하는 생명 기술은?

> 생물체의 유전자를 일부 잘라내고, 그 자리에 다른 생물체의 유용한 유전자를 결합하는 기술

① 핵 이식 기술 ② 세포 융합 기술
③ 조직 배양 기술 ④ 유전자 재조합 기술